Winter: Zehnerübergang und Geld

Boo! Welches Tier watschelt übers Eis und kann nicht fliegen? Rechne die Plusaufgaben: erst bis zum Zehner, dann weiter. Zu jedem Ergebnis gehört ein Buchstabe. Das Lösungswort verrät das Tier. Du schaffst das!

Zehnerübergang in zwei Schritten: 27 + 6 = 27 + 3 + 3. Erst zum Zehner, dann den Rest. Mehr in M208 und M214.



1. Rechne. Finde das Lösungswort.

Schlüssel:

33	43	45	52	61	62	74
P	A	I	N	G	L	U

27 + 6	38 + 7	46 + 6	54 + 7	68 + 6	39 + 6	47 + 5
☐	☐	☐	☐	☐	☐	☐
☆	☆	☆	☆	☆	☆	☆

16 + 6 = ☐☐ ☆

72 + 9 = ☐☐ ☆

64 + 9 = ☐☐ ☆

55 + 7 = ☐☐ ☆

78 + 4 = ☐☐ ☆

53 + 9 = ☐☐ ☆

68 + 8 = ☐☐ ☆

69 + 7 = ☐☐ ☆

Hier gibt es noch mehr!

Übungsblatt
M252-1

© 2026 banoo.boo - Nutzung für Privat & Unterricht erlaubt. Keine öffentliche Weiterveröffentlichung.

Winter: Zehnerübergang und Geld

Was machen die Kinder am Schlossberg am liebsten? Rechne die Minusaufgaben: erst zurück bis zum Zehner, dann weiter. Die Buchstaben ergeben ein Wort. Danach kommen noch ein paar Päckchen. Boo-tastisch!

1. Rechne. Finde das Lösungswort.

●○○

Schlüssel:

35	36	46	57	58	66	77	88
R	S	O	T	D	E	L	N

43 – 8	52 – 6	61 – 3	75 – 9	84 – 7	93 – 5
↓	↓	↓	↓	↓	↓
☆	☆	☆	☆	☆	☆

62 – 4 = ☐☐ ☆

71 – 6 = ☐☐ ☆

80 – 6 = ☐☐ ☆

61 – 6 = ☐☐ ☆

50 – 8 = ☐☐ ☆

82 – 7 = ☐☐ ☆

74 – 6 = ☐☐ ☆

42 – 5 = ☐☐ ☆



Ich rechne in zwei Schritten.

Hier gibt es noch mehr!

Übungsblatt
M252-2



© 2026 banoo.boo - Nutzung für Privat & Unterricht erlaubt. Keine öffentliche Weiterveröffentlichung.

Winter: Zehnerübergang und Geld

Bruno baut Rechenmauern aus Eisblöcken, wie ein Iglu. Jeder Block ist so viel wie die zwei Blöcke darunter zusammen. Fehlt unten ein Block, rechnest du rückwärts. Rechne bis zur Schneeflocke! Du schaffst das! Boo-per!

1. Rechne bis zur Schneeflocke. ●●○

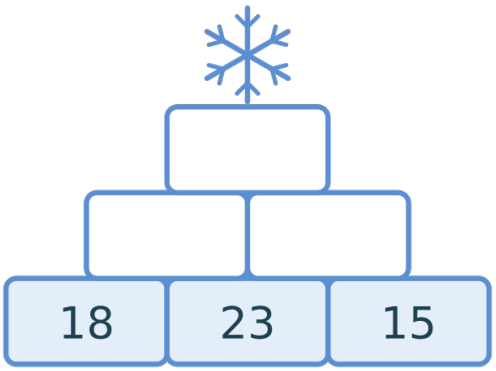

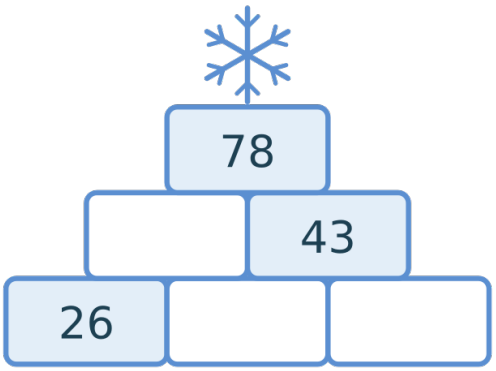

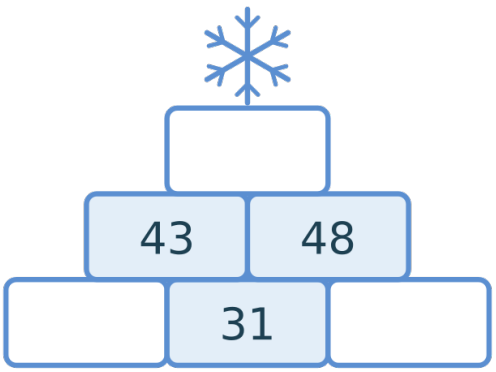

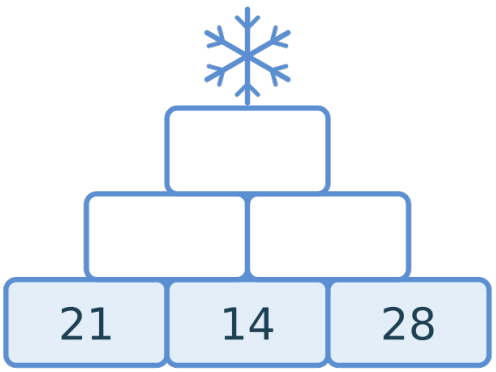



Fehlt unten ein Block? Dann minus!

Hier gibt es noch mehr!

Übungsblatt
M252-3

© 2026 banoo.boo - Nutzung für Privat & Unterricht erlaubt. Keine öffentliche Weiterveröffentlichung.

Winter: Zehnerübergang und Geld

Schneeballschlacht im Schlosshof! Emil hat immer doppelt so viele Schneebälle wie Lina. Mato hat nur halb so viele. Rechne in der Tabelle das Doppelte und die Hälfte aus. Wer gewinnt wohl? Boo-tastisch!

Verdoppeln und Halbieren gehören zusammen: 2 · 15 = 30 und die Hälfte von 30 ist 15. Mehr in M120.



1. Rechne das Doppelte und die Hälfte. Schreibe in die Tabelle.

Lina	Emil: das Doppelte	Mato: die Hälfte
12	24	6
20		
24		
30		
40		

2. Verdopple oder halbiere.

Das Doppelte von 16:

Die Hälfte von 50:



Mein Hund Toffee will auch Schneebälle!

Hier gibt es noch mehr!

Übungsblatt
M252-4

© 2026 banoo.boo - Nutzung für Privat & Unterricht erlaubt. Keine öffentliche Weiterveröffentlichung.

Winter: Zehnerübergang und Geld

Im Winterladen in Bärental gibt es alles für kalte Tage. Lies die Preise auf der Tafel. Lies dann die Geschichte genau und rechne. Schreib den Betrag in Euro auf. Denk an den Zehnerübergang! Boosa!

Mit Spielgeld nachlegen hilft: erst die Scheine, dann die Münzen. Mehr Übung in M218 Geld bis 100 Euro.



Winterladen

Mütze	8 €
Schal	12 €
Handschuhe	9 €
Thermoskanne	14 €
Schlitten	45 €

Emil hat 60 € gespart. Er kauft einen Schlitten und eine Thermoskanne für heißen Tee. Wie viel Geld behält er?

1. Was kostet das? Rechne und schreibe. ●●●

Emils Rest von 60 €: _____ €

Mütze und Schal: _____ €

Mütze und Handschuhe: _____ €

Hier gibt es noch mehr!

Übungsblatt
M252-5

© 2026 banoo.boo - Nutzung für Privat & Unterricht erlaubt. Keine öffentliche Weiterveröffentlichung.

Winter: Zehnerübergang und Geld

Ergänze bis zum nächsten Zehner und bis 100. Danach verbindest du die Punkte in Zweierschritten: 2, 4, 6 und so weiter bis 40. Was siehst du dann? Du bist ein Rechenprofi, Boo-per!

64 + ☐ = 70 ☆	70 + ☐☐ = 100 ☆
37 + ☐ = 40 ☆	40 + ☐☐ = 100 ☆
82 + ☐ = 90 ☆	85 + ☐☐ = 100 ☆
45 + ☐ = 50 ☆	60 + ☐☐ = 100 ☆

1. Verbinde die Punkte in Zweierschritten. ●●●

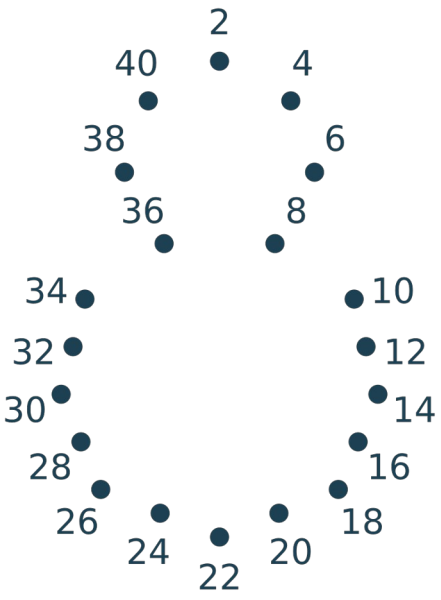







Hier gibt es noch mehr!

Übungsblatt
M252-6



© 2026 banoo.boo - Nutzung für Privat & Unterricht erlaubt. Keine öffentliche Weiterveröffentlichung.