Winter: Rechnen bis 1000

Boo! Am Schlossdach hängen lange, spitze Dinger aus Eis. Wie heißen sie? Rechne die Einmaleins-Aufgaben. Zu jedem Ergebnis gehört oben ein Buchstabe. Das Lösungswort verrät es dir. Danach kommen noch Päckchen!

1. Rechne. Finde das Lösungswort.

●○○

Schlüssel:

24	27	32	35	36	42	45	48	56	63
F	S	I	R	A	E	P	L	Z	N

6 · 7	8 · 4	9 · 3	7 · 8	6 · 6	9 · 5	3 · 8	7 · 6	9 · 7
↓	↓	↓	↓	↓	↓	↓	↓	↓

7 · 9 = ☆

4 · 3 = ☆

4 · 6 = ☆

7 · 3 = ☆

15 : 5 = ☆

35 : 5 = ☆

35 : 7 = ☆

20 : 4 = ☆

Malaufgaben und Geteiltaufgaben gehören zusammen: 7 · 8 = 56, also 56 : 8 = 7. Mehr in M312 Kleines Einmaleins.



Hier gibt es noch mehr!

Übungsblatt
M352-1

© 2026 banoo.boo - Nutzung für Privat & Unterricht erlaubt. Keine öffentliche Weiterveröffentlichung.

Winter: Rechnen bis 1000

Welche Jahreszeit ist jetzt? Rechne mit Übergang: erst die Hunderter, dann die Zehner, dann die Einer. Die Buchstaben zu den Ergebnissen ergeben das Lösungswort. Du schaffst das! Boo-per!

1. Rechne. Finde das Lösungswort.

●○○

Schlüssel:

255	435	483	485	625	632	634	805
E	R	T	S	I	W	A	N

347 + 285	468 + 157	529 + 276	731 − 248	614 − 359	902 − 467
↓	↓	↓	↓	↓	↓
☐	☐	☐	☐	☐	☐
☆	☆	☆	☆	☆	☆

449 + 227 = ☐☐☐ ☆

434 + 189 = ☐☐☐ ☆

595 + 255 = ☐☐☐ ☆

167 + 263 = ☐☐☐ ☆

813 − 208 = ☐☐☐ ☆

721 − 473 = ☐☐☐ ☆

622 − 238 = ☐☐☐ ☆

723 − 390 = ☐☐☐ ☆

Hier gibt es noch mehr!

Übungsblatt
M352-2

© 2026 banoo.boo - Nutzung für Privat & Unterricht erlaubt. Keine öffentliche Weiterveröffentlichung.

Winter: Rechnen bis 1000

Bruno baut Rechenmauern aus Eisblöcken, wie ein Iglu. Jeder Block trägt die Summe der beiden Blöcke darunter. Fehlt unten ein Block, rechnest du rückwärts. Füll alle leeren Blöcke bis zur Schneeflocke. Boo-tastisch!

1. Rechne bis zur Schneeflocke. ●●○

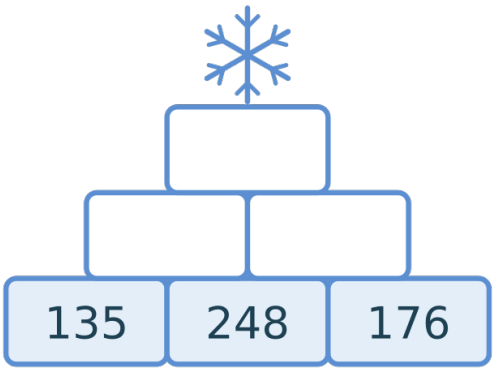

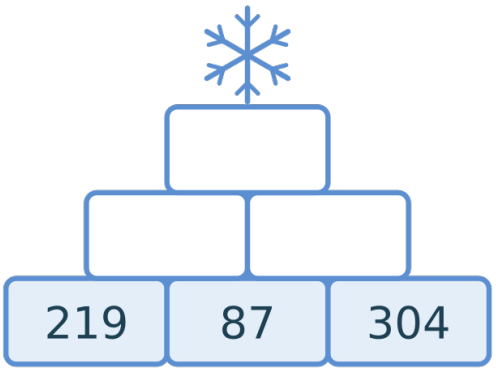

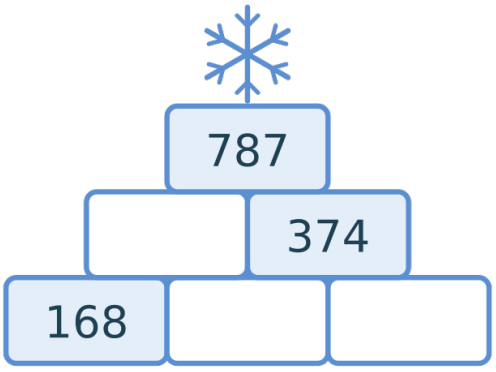

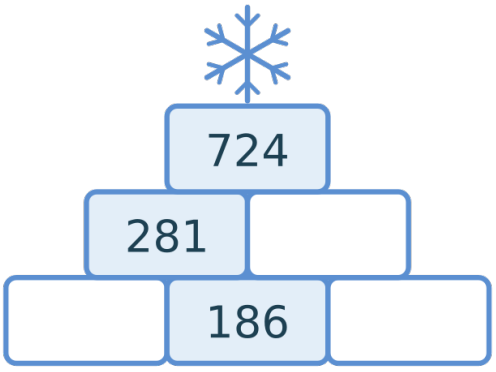



Meine Iglu-Mauern halten!

Hier gibt es noch mehr!

Übungsblatt
M352-3

© 2026 banoo.boo - Nutzung für Privat & Unterricht erlaubt. Keine öffentliche Weiterveröffentlichung.

Winter: Rechnen bis 1000

Im Januar zählen viele Familien eine Stunde lang die Vögel am Futterhaus. Die Klasse 3b hat am Samstag und am Sonntag gezählt. Rechne in der Tabelle, wie viele Vögel es an beiden Tagen waren. Du schaffst das! Boosa!

Erst Zeile für Zeile addieren, dann die Spalte. Die Summen müssen zusammenpassen. Mehr in M317 Diagramme lesen.



Spatz Kohlmeise Blaumeise Amsel Rotkehlchen

1. Wie viele Vögel sind es zusammen?

Vogel	Samstag	Sonntag	zusammen
Spatz	215	187	402
Kohlmeise	128	96	
Blaumeise	87	105	
Amsel	64	58	
Rotkehlchen	23	31	

2. Rechne und schreibe die Zahl.

Alle Vögel am Samstag:

Alle Vögel am Sonntag:

Am Samstag mehr:

Kohlmeisen am Samstag mehr:

Hier gibt es noch mehr!

Übungsblatt
M352-4

© 2026 banoo.boo - Nutzung für Privat & Unterricht erlaubt. Keine öffentliche Weiterveröffentlichung.

Winter: Rechnen bis 1000

Zum Schluss verbindest du die Punkte in Fünfzigerschritten: 50, 100, 150 und so weiter. Was entsteht? Dazu rechnest du mit Zehnerzahlen. Das kleine Einmaleins hilft dir dabei. Du schaffst das! Boosa!

1. Verbinde die Punkte in Fünfzigerschritten. ●●●

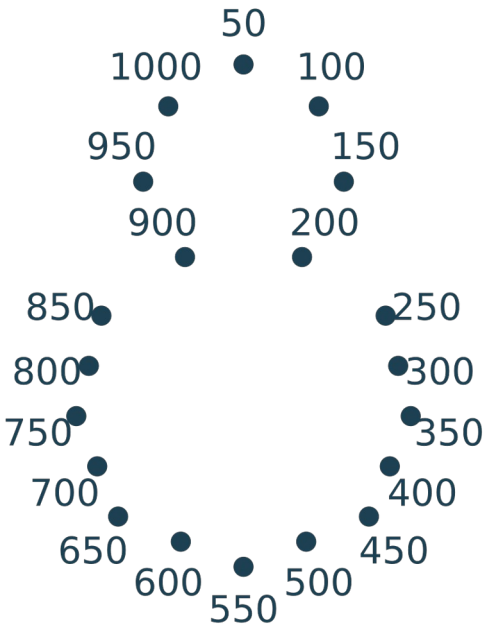

$4 \cdot 30 =$ ☆ $240 : 6 =$ ☆

$6 \cdot 50 =$ ☆ $350 : 7 =$ ☆

$8 \cdot 40 =$ ☆ $480 : 8 =$ ☆

$7 \cdot 90 =$ ☆ $630 : 9 =$ ☆

Hier gibt es noch mehr!

Übungsblatt
M352-5

© 2026 banoo.boo - Nutzung für Privat & Unterricht erlaubt. Keine öffentliche Weiterveröffentlichung.

Winter: Rechnen bis 1000

Vögel zählen am Futterhaus! Isi sitzt im Baum und schaut zu, sie selbst zählt nicht mit. Schau dir das Bild ganz genau an. Wie viele Vögel jeder Art findest du? Hak jeden gezählten Vogel ab. Du schaffst das! Boosa!



1. Zähle im Bild.

Spatzen:

Kohlmeisen:

Blaumeisen:

Amseln:

Hier gibt es noch mehr!

Übungsblatt
M352-6

© 2026 banoo.boo - Nutzung für Privat & Unterricht erlaubt. Keine öffentliche Weiterveröffentlichung.

Winter: Rechnen bis 1000

Stell dir vor, jeden Tag kommen genau so viele Vögel wie im Bild: 7 Spatzen, 4 Kohlmeisen, 3 Blaumeisen, 2 Amseln und 1 Rotkehlchen. Rechne aus, wie viele es in mehreren Tagen sind. Boo-tastisch!

1. Rechne mit den Vögeln.

Vögel an 7 Tagen:

Spatzen an 7 Tagen:

Kohlmeisen an 9 Tagen:

Beine aller Gartenvögel:

Meisen an 8 Tagen:

Spatzen mehr als Amseln:

Vögel in 4 Wochen:

Amseln in 30 Tagen:

Vögel ohne Spatzen:

Rotkehlchen in einem Jahr:



Ich zähle morgen wieder!

Hier gibt es noch mehr!

Übungsblatt
M352-7

© 2026 banoo.boo - Nutzung für Privat & Unterricht erlaubt. Keine öffentliche Weiterveröffentlichung.