Lösungsblatt: Winter: Große Zahlen und Größen

Vergleiche mit deinem Blatt. Jede richtige Aufgabe gibt einen BooStar.

1. Rechne schriftlich im Karo.

●○○

			4	8	6	·	7	

		1	3	7	5	·	4	

		2	6	0	8	·	3	

			9	5	7	·	8	

		3	2	4	9	·	6	

		1	8	6	4	·	5	

2. Bonus: Stimmt das? Kreise ein.

●○○

1 l sind 1 000 ml. (ja) nein

1 kg sind 100 g. ja (nein)



Schriftlich rechnen: immer von rechts!

Schriftlich multiplizieren beginnt rechts bei den Einern, der Übertrag wird klein notiert. Mehr in M408.



Hier gibt es noch mehr!

Lösungsblatt
M452-1

© 2026 banoo.boo - Nutzung für Privat & Unterricht erlaubt. Keine öffentliche Weiterveröffentlichung.

Lösungsblatt: Winter: Große Zahlen und Größen

Vergleiche mit deinem Blatt. Jede richtige Aufgabe gibt einen BooStar.

1. Rechne. Finde das Lösungswort.

Schlüssel:

200	300	400	500	600	700	800	900
E	S	K	A	I	T	L	P

2 400 : 8	3 600 : 9	4 200 : 7	5 400 : 6	1 800 : 3	1 500 : 5	2 800 : 4	1 600 : 8
300	**400**	**600**	**900**	**600**	**300**	**700**	**200**
↓	↓	↓	↓	↓	↓	↓	↓
S	**K**	**I**	**P**	**I**	**S**	**T**	**E**



Große Zahlen teilen mit dem Einmaleins: 4 200 : 7 = 600, weil 42 : 7 = 6. Mehr in M406.

2. Rechne.

4 500 : 9 = 500

6 300 : 7 = 900

3 200 : 4 = 800

2 700 : 3 = 900

Hier gibt es noch mehr!

Lösungsblatt
M452-2

© 2026 banoo.boo - Nutzung für Privat & Unterricht erlaubt. Keine öffentliche Weiterveröffentlichung.

Lösungsblatt: Winter: Große Zahlen und Größen

Vergleiche mit deinem Blatt. Jede richtige Aufgabe gibt einen BooStar.

Zuordnungen in Tabellen: Für doppelt so viele Becher braucht man doppelt so viel. Mehr in M430.



1. Wie viel braucht Tick? Schreibe in die Tabelle.

Zutat	1 Becher	6 Becher	24 Becher
Milch	200 ml	1,2 l	4,8 l
Kakaopulver	10 g	60 g	240 g
Zucker	5 g	30 g	120 g
Sahne	20 ml	120 ml	480 ml

2. Rechne und schreibe.

Becher aus 3 l Milch: 15

Kakaopulver für 24 Becher: 240 g

3. Bonus: Stimmt das? Kreise ein.

3 600 : 6 = 60 .... ja (nein)

7 · 1 200 = 7 400 ja (nein)

0,2 l sind 20 ml. ja (nein)

2 400 : 8 = 300 (ja) nein



Kakao für alle!

Hier gibt es noch mehr!

Lösungsblatt
M452-3

© 2026 banoo.boo - Nutzung für Privat & Unterricht erlaubt. Keine öffentliche Weiterveröffentlichung.

banoo boo

Lösungsblatt: Winter: Große Zahlen und Größen

Vergleiche mit deinem Blatt. Jede richtige Aufgabe gibt einen BooStar.

1. Lies.



Der Sessellift bringt in jeder Stunde 1 200 Personen auf den Berg. Er fährt von 9 bis 16 Uhr. Eine Tageskarte für Kinder kostet 24 €. Am Samstag kaufen 1 250 Kinder eine Karte. Die lange Abfahrt ist 3 km 400 m lang. Lina fährt sie an diesem Tag 6-mal. Frage 1: Wie viele Personen bringt der Lift an einem Tag nach oben? Frage 2: Wie viel Geld kosten alle Kinderkarten zusammen? Frage 3: Wie weit fährt Lina insgesamt?

2. Rechne und schreibe mit Einheit.

Frage 1: 8 400 Personen

Frage 2: 30 000 €

Frage 3: 20 400 m = 20,4 km



Wie weit fährt Lina wohl?



Bei Sachaufgaben auf die Einheit achten und am Ende einen Antwortsatz sagen. Mehr Übung: M415.

Hier gibt es noch mehr!

Lösungsblatt
M452-4

© 2026 banoo.boo - Nutzung für Privat & Unterricht erlaubt. Keine öffentliche Weiterveröffentlichung.

Lösungsblatt: Winter: Große Zahlen und Größen

Vergleiche mit deinem Blatt. Jede richtige Aufgabe gibt einen BooStar.

1. Rechne bis zur Schneeflocke.

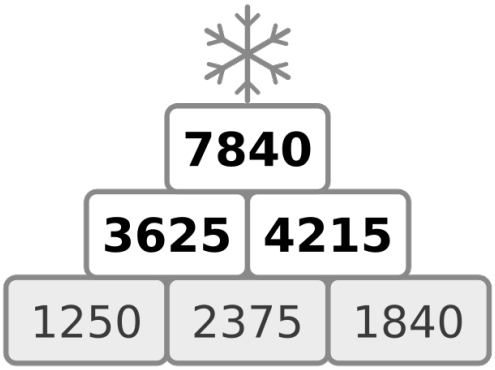

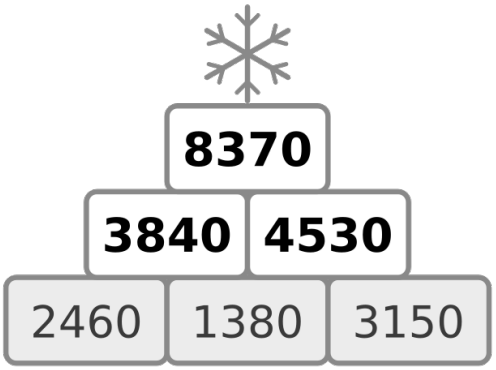

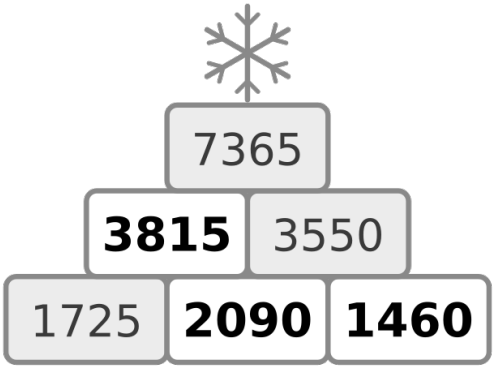

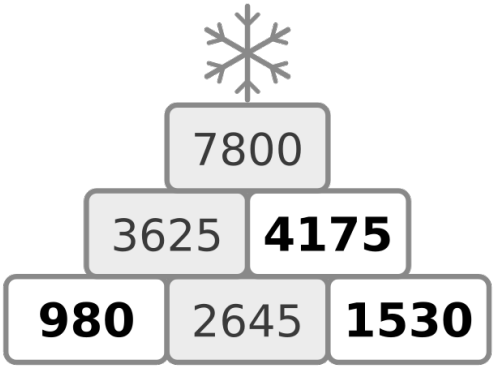

2. Runde die Besucherzahlen.

12 487 auf Tausender: 12 000

8 650 auf Tausender: 9 000

Hier gibt es noch mehr!

Lösungsblatt
M452-5

© 2026 banoo.boo - Nutzung für Privat & Unterricht erlaubt. Keine öffentliche Weiterveröffentlichung.